花さき山

飯豊町立飯豊中学校
第1学年だより
第 32 号
2023. 12. 8(金)
文責 ： 小松正義

ワックスがけ ありがとう

６日（水）みんなが早く下校した後に、整美委員とボランティアメンバーで、１階の廊下、ホール、昇降口のワックスがけを行ってくれました。きれいな環境で年を越すことができます。１６人も集まってくれてありがとうございました。これからも学校のため、みんなのために働いてくれる人がどんどん増えてくれることを期待しています。

整 美 委 員

井上 陽汰さん(１組)　鈴木 紅蘭さん(１組)　渡部 心温さん(１組)
菊地 我彪さん(２組)　小関 彩愛さん(２組)　鈴木 歩夢さん(２組)

ボランティア

伊藤 愛琉さん(１組)
伊藤 稜真さん(１組)
井上 烈斗さん(１組)
新沼 瑛斗さん(１組)
舟山 大輝さん(１組)
安部 颯希さん(３組)
伊藤 咲弥さん(２組)
志田 心優さん(２組)
髙橋 頼叶さん(２組)
本間 るいさん(２組)
以上精鋭 16 名



立会演説会 堂々と！

当選おめでとう

生徒会副会長 新 沼 瑛 斗 さん（１組）
生徒会副会長 ハンダーマン結愛 さん（２組）

全校生の一票を無駄にしないためにはこれからが本番、公約を果たせるようにみんなのために頑張ってください。

また、責任者の２人、**志田 大雅さん(１組)　遠藤ひなたさん(１組)**
選挙管理委員の２人、**大谷部麗奈さん(１組)　梅津 颯助さん(２組)**
も堂々と自分の仕事を果たしていました。そして、１年生みんなも、しっかりした態度で立会演説会に臨んでいました。**みんなの生徒会です。来年どんな学校にしたいか、自分なりの解答も持てたことでしょう。**

全校数学テストを全力で！

12 月 21 日（木） 本テスト 諸活動優先の時間（終わりの会終了後）

12 月 12 日（火） プレテスト ６校時の学活の時間

練習プリントは、11 月 27 日から毎日出されています。問題のパターンは一緒です。解き方をしっかり覚えること、そして計算を正確に行うことが求められています。

さあ、練習を重ねてのテストです。80 点合格です。まずは全員 80 点以上、さらに特級の 100 点を目指そう。**必ず 80 点以上の目標**を定めて全力で取り組みましょう。

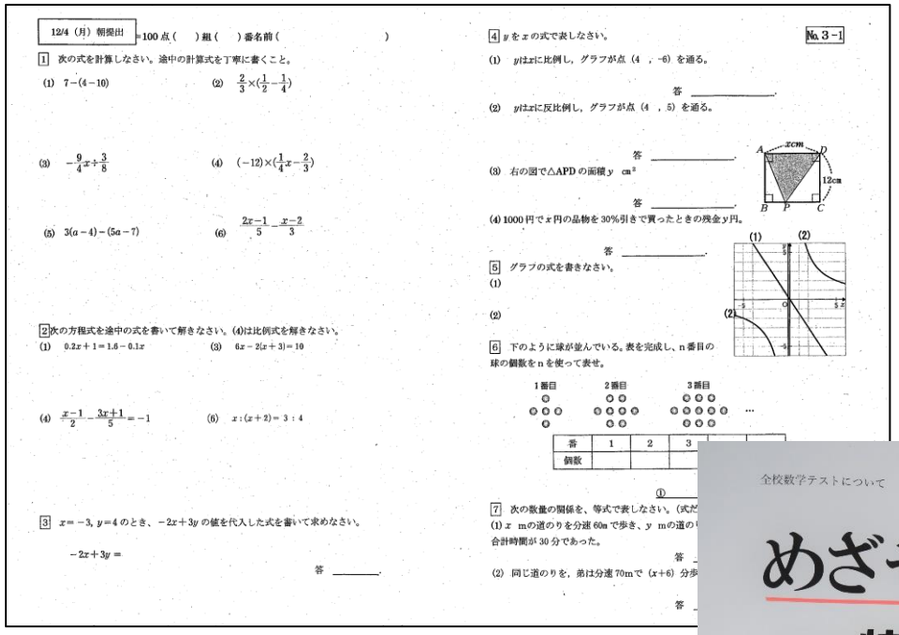

12/4（月）朝提出 ＝100 点（　　）組（　　）番名前（　　）

No. 3－1

1 次の式を計算しなさい。途中の計算式を丁寧に書くこと。

(1) $7-(4-10)$　(2) $\frac{2}{3}\times(\frac{1}{2}-\frac{1}{4})$

(3) $-\frac{9}{4}x+\frac{3}{8}$　(4) $(-12)\times(\frac{1}{4}x-\frac{2}{3})$

(5) $3(a-4)-(5a-7)$　(6) $\frac{2x-1}{5}-\frac{x-2}{3}$

2 次の方程式を途中の式を書いて解きなさい。(4)は比例式を解きなさい。

(1) $0.2x+1=1.6-0.1x$　(3) $6x-2(x+3)=10$

(4) $\frac{x-1}{2}-\frac{3x+1}{5}=-1$　(6) $x:(x+2)=3:4$

3 $x=-3$, $y=4$ のとき、$-2x+3y$ の値を代入した式を書いて求めなさい。

$-2x+3y=$

答 ＿＿＿＿

4 y を x の式で表しなさい。

(1) yはxに比例し、グラフが点（4 ，−6）を通る。

答 ＿＿＿＿

(2) yはxに反比例し、グラフが点（4 ，5）を通る。

答 ＿＿＿＿

(3) 右の図で△APD の面積 y cm²

答 ＿＿＿＿

(4) 1000 円で x 円の品物を 30%引きで買ったときの残金 y 円。

答 ＿＿＿＿

5 グラフの式を書きなさい。

(1)

(2)

6 下のように球が並んでいる。表を完成し、n 番目の球の個数を n を使って表せ。

1番目　2番目　3番目

番	1	2	3		
個数					

7 次の数量の関係を、等式で表しなさい。（式だ

(1) x mの道のりを分速 60m で歩き、y mの道の

合計時間が 30 分であった。

答

(2) 同じ道のりを，弟は分速 70m で（x+6）分歩

答



12/7 木の朝提出　（　）組（　）番名前（　　）

No. 4－2

1 次の式を計算しなさい。途中の計算式を丁寧に書くこと。

(1) $-12-(-16)-2$　(2) $7\times(-7)-(-40)\div 8$

(3) $(-56a-7)\div(-7)$　(4) $2(a+3)-3(a-4)$

(5) $\frac{1}{5}x+6+\frac{1}{3}x+1$　(6) $x-2-\frac{2x-1}{3}$

2 次の方程式を途中の式を書いて解きなさい。(4)は比例式を解きなさい。

(1) $-7x=63$　(2) $\frac{1}{2}x-4=\frac{4}{3}x+\frac{7}{2}$

(3) $\frac{2x+2}{3}=\frac{x+3}{2}$　(4) $\frac{2}{3}x:2=5:6$

3 $x=-2$, $y=-4$ のとき、$4x-\frac{1}{2}y$ の値を代入した式を書いて求めなさい。

$4x-\frac{1}{2}y=$

答 ＿＿＿＿

4 次の(1)～(3)について，y を x の式で表し，比例するものは○，反比例するものは×，どちらでもないものは△ を書きなさい。

(1) 長さ 30mのひもから x cmのひもを 3 本切り取るとすると，残り y cmになる。

(2) 40L の水そうに毎分 xL の割合で水を入れると，いっぱいになるまで y 分かかる。

(3) 空の水そうに毎分 9L の割合で x 分間給水すると，水そうの水の量は yL になる。

5 右のグラフの実線部分は A さんが家を出てからの時間を x 分，歩いた道のりを y mとして学校に着くまでの様子を表している。

(1) A さんの歩いた道とそれを書きなさい。

（　）分で（　）mだから 答 分速 ＿＿＿ m

式

(2) x の変域と y の変域を求めなさい。

x の変域＿＿＿＿＿＿，y の変域＿＿＿＿＿＿

6 1 辺の長さが 1 cmである同じ大きさの正方形を規則的に並べました。太い線は，できた図形の周を表しています。

1番目　2番目　3番目

下の表を完成し，n 番目の周の長さを，n を使って表しなさい。

番	1	2	3	・・・	n
周の長さ				・・・	①

①＿＿＿＿＿＿（cm）

6 次の数量の関係を，等式で表しなさい。（式だけでよい）

(1) あめを，姉は x 個，妹 y 個持っていたが，姉が妹に 7 個あげたので，2 人のあめの個数は等しくなった。

(2) 100 枚の色紙を，7 枚ずつ x 人に配ると，残りは y 枚になる。

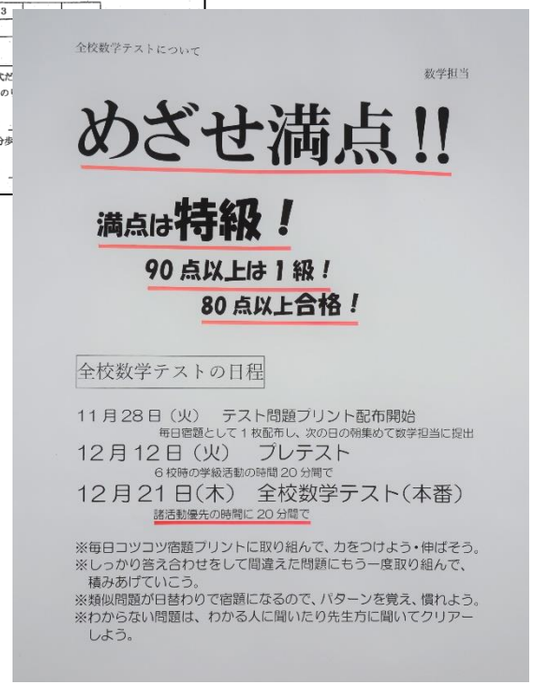

全校数学テストについて

数学担当

めざせ満点!!

満点は特級！

90 点以上は 1 級！

80 点以上合格！

全校数学テストの日程

11 月 28 日（火） テスト問題プリント配布開始

毎日宿題として 1 枚配布し、次の日の朝集めて数学担当に提出

12 月 12 日（火） プレテスト

６校時の学級活動の時間 20 分間で

12 月 21 日（木） 全校数学テスト（本番）

諸活動優先の時間に 20 分間で

※毎日コツコツ宿題プリントに取り組んで、力をつけよう・伸ばそう。
※しっかり答え合わせをして間違えた問題にもう一度取り組んで、積みあげていこう。
※類似問題が日替わりで宿題になるので、パターンを覚え、慣れよう。
※わからない問題は、わかる人に聞いたり先生方に聞いてクリアーしよう。

1人ひとり2学期の生活や学習についてしっかり振り返り、2023年を締めくくろう

12月11日～ 12月17日

週 計 画 表(確定版)

第37週

日曜	予定	授業	学年 1			2			3			給食	日課・学校行事		日直 スクールバス	
	朝	打合せ	1-1	1-2	1-3	2-1	2-3	3-1	3-2	3-4			普通6校時	下校 3年16:20 1･2年17:45	樋口	船山
11日（月）	1	月1									○		Ⅲ期時間割開始 学校集金振替日	竹田専門員来校	全号車(12346)	1便16:20
	2	月2														
	3	月3											清掃 終わりの会 部活動	15：30～15：45 15：55～16：10 16：15～17：30	全号車(1234リース)	2便17:45
	4	月4														
	5	月5														
	6	月6														
12日（火）	朝	生朝会	1-1	1-2	1-3	2-1	2-3	3-1	3-2	3-4			普通6校時	下校 3年16:20 1･2年17:45	八木	岩瀬
	1	火1	・アンサンブルコンテスト壮行演奏								○			長沼SC(AM)	全号車(12346)	1便16:20
	2	火2											終わりの会 歌声活動 部活動	15：35～15：50 15：55～16：10 16：20～17：30		
	3	火4													全号車(1234リース)	2便17:45
	4	火5														
	5	火6														
	6	水5	学活（全校数学プレテスト）													
13日（水）	朝	清掃	1-1	1-2	1-3	2-1	2-3	3-1	3-2	3-4			普通4校時	下校 14:10	塩地	小松
	1	水1	道徳			道徳		道徳			○		清掃	8：20～ 8：35	全号車	14:10
	2	水2											給食 終わりの会(すららドリル) 三者面談①	12：35～13：30 13：35～14：00 14：30～16：40		
	3	木5				総合		総合								
	4	木6	補充			補充		補充					研究推進委員会	14：20～15：20		
														定時退勤日		部活動なし
14日（木）	朝	打合せ	1-1	1-2	1-3	2-1	2-3	3-1	3-2	3-4			普通4校時	下校 3年14:00 1･2年16:30	布川	高橋
	1	木1	道徳			道徳		道徳			○	三者面談週間	終わりの会 部活動 三者面談②	13：35～13：50 14：00～16：15 14：30～16：40	全号車(1234リース)	1便14:00
	2	木2													全号車(12346)	2便16:30
	3	木3											三者面談週間中の部活動指導 体育館　沼澤・布川 武道場　今 インドア　教頭 ギャラリー　小松正 音楽室・美術室　八木	佐藤SC(PM)		
	4	木4														
15日（金）	朝	学集会	1-1	1-2	1-3	2-1	2-3	3-1	3-2	3-4			普通4校時	下校 3年14:30 1･2年16:45	長谷部	教頭
	1	金1									○				1便14:20 (1号車14:40) (2号車14:50)	
	2	金2											清掃 終わりの会 部活動 三者面談③	13：35～13：50 14：00～14：15 14：25～16：30 14：30～16：40		
	3	金5														
	4	金6											２学年ＰＴＡ役員会	18：00～（会議室）	2便1234リース	16:45
16日（土）													吹奏楽アンサンブルコンテスト地区大会8:30～高畠町文化ホール「まほら」(吹奏楽部・岩瀬･飯澤) 南陽市菊祭り杯卓球大会9:00～南陽市民体育館（卓球部・八木）			
17日（日）													いいで希望塾全学年9:00～16:20あ～す			